Prénom : _____ Date : _____

Nom : _____

Evaluation Mathématiques 2 (début de CE1)

Exercice 1 : dictée de nombres.

Exercice 2 : colorie les étiquettes de la même couleur que les ballons.



Exercice 3 : sur le quadrillage et avec la règle, trace un carré, un rectangle et un triangle.

Exercice 4 : range les nombres du plus petit au plus grand.



_____ < _____ < _____ < _____

Exercice 5 : complète les suites numériques.

65	66								

96	97								

2	4	6							20

Prénom : _____ Nom : _____

Exercice 6 : calcule.

38 + 3 =
52 + 7 =
46 + 4 =

$$\begin{array}{r} 38 \\ +\ 14 \\ \hline \end{array}$$

25+13 =

Exercice 7 : compare les sauts des criquets et complète la réponse.



C'est le criquet de ..... qui a sauté le plus loin.

Exercice 8 : complète les égalités.

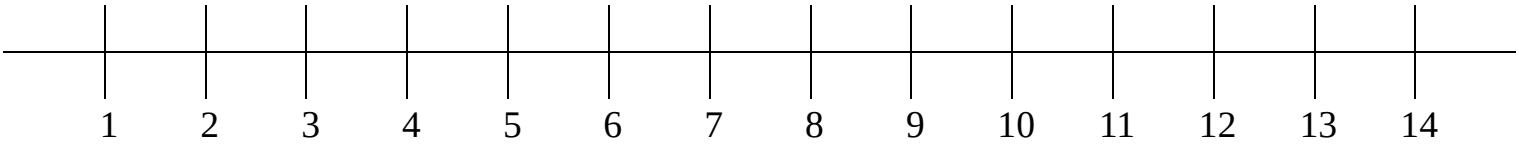

8 - 1 =	9 - 3 =	7 - 6 =
6 - 2 =	5 - 4 =	9 - 5 =

Exercice 9 : relie les formes géométriques à leur nom.
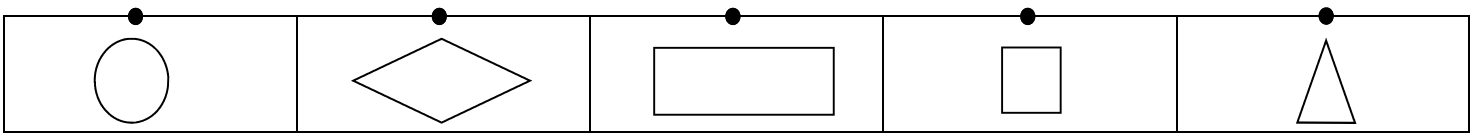
rectangle	cercle	triangle	losange	carré
•	•	•	•	•